ETAPE 10

Ultime étape. Pour cette dernière vous devrez résoudre les énigmes pour trouver les coordonnées de la boite cachée.

Coordonnées Google maps. Pour chaque case trouvez un nombre ou un chiffre.

N [1] . [2] [3] [4]

E [5] . [6] [7] [8]

1. Additionnez
   10+3-5+16+11-6+20+4-8= ?

2. Pyramide des nombres. Chaque case est égale à la somme des cases du dessous

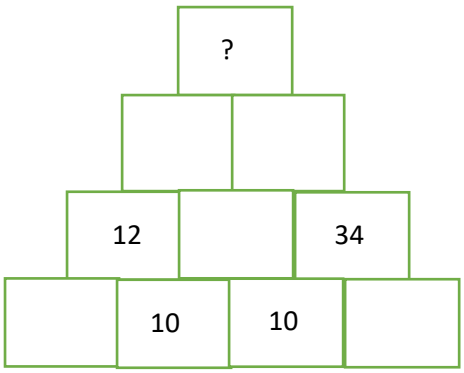

3. Chiffre manquant : trouvez la suite

   3 - 6- 12 – 24- ?

4. Œil du géomètre : comptez le nombre de carrés qui se cachent ici

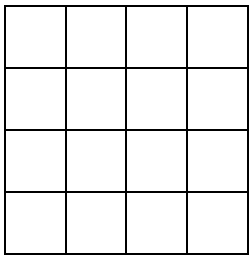

5. Calcul mystère : trouvez combien vaut la petite fille.

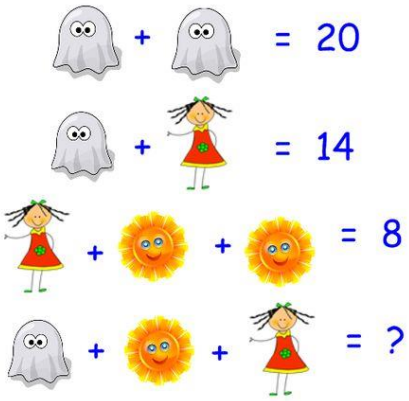

6. Additionnez le nombre de pattes et de tête qu'il y a dans ma ferme.

Dans la cour il y a 10 poules, 4 moutons, 5 vaches sachant qu'une poule a perdu la tête à cause du renard.

7. Quel âge à mon frère ?

   Quand j'avais 8 ans mon frère en avait la moitié. Aujourd'hui je fête mes 36 ans.

8. Remettez les lettres dans l'odre

Q – I – E – I – A – U – N- T – U – H- C – N – T